Mathématiques vendredi 9 avril

Dictée de nombre

Pose les additions en colonnes comme avec les bougies d'anniversaire.

36 + 23=

	dizaines	unités
	.....	.....
+	.....	.....
total	.....	.....

42 + 46 =

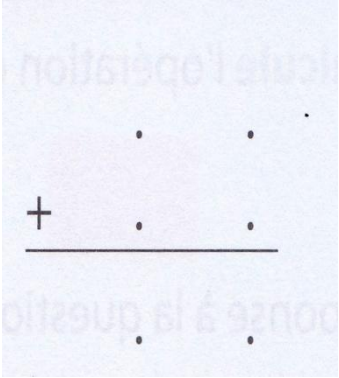

54 + 23 =

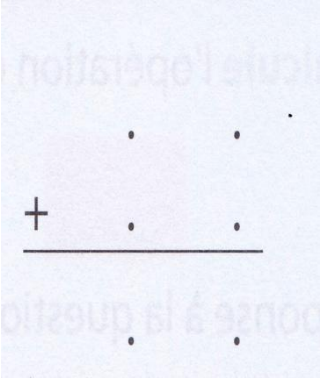

25 + 64 =



61 + 16=

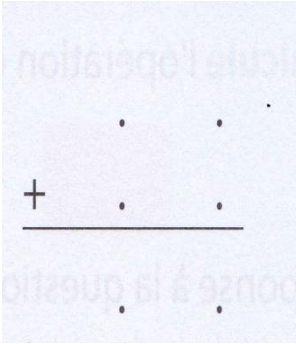

1 Lilou a 21 euros dans sa tirelire.
Sa grand-mère lui donne 17 euros.
Combien d'argent Lilou a-t-elle maintenant ?

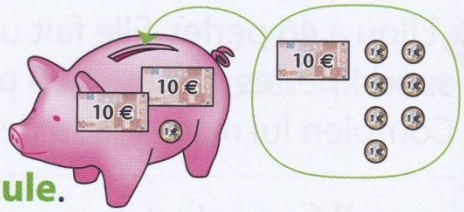

Fais tes essais.

Écris l'opération et **calcule**.

.....

Écris la réponse.

Lilou a maintenant .....

2 Mehdi et Lilou mettent ensemble leurs images.
Mehdi en a 37 et Lilou en a 22.
Combien d'images ont-ils à eux deux ?



Fais tes essais.

Écris l'opération et **calcule**.

.....

Écris la réponse.

Lilou et Mehdi ont .....

3 Au jeu de l'oie, Litchi est sur la case 46.
Il fait 12 avec ses deux dés.
Sur quelle case est-il maintenant ?

Fais tes essais.

Écris l'opération et **calcule**.

.....

Écris la réponse.

Litchi est sur la case .....

Extrait de Litchi mathématiques, ed Istra